Olimpiada județeană de geografie- proba practică -03 martie 2018
clasa a X-a
Földrajz tantárgyverseny- megyei szakasz- gyakorlati próba – 2018. március. 03.
X. osztály

- În următoarele 9 slide-uri veți observa imagini/fotografii, despre elemente, fenomene sau procese geografice. Identificați după numărul dat la fiecare imagine/fotografie, tipul de fenomen sau proces sau element geografic observat și notați răspunsul pe foaia de lucru.(după numărul imaginii-notați răspunsul vostru)

Timp de lucru 10 minute(1min/slide)

- A következő 9 elektronikus diapozitív fényképein földrajzi jelenségeket, folyamatokat vagy földrajzi elemeket fogtok megfigyelni. Határozzátok meg a fényképeken ábrázolt földrajzi jelenséget, folyamatot vagy földrajzi elemet(-ket), és a fénykép száma alapján írjátok le a vizsgalapra a helyes választ!
- Munkaidő: 10 perc(1perc/diapozitív)

Identificaţi denumirea statelor marcate cu cifre roşii de pe harta alăturată şi formele de guvernământ ale statelor respective!

Nevezzétek meg a piros számokkal jelölt államok neveit és az illető államok kormányzási formáját!

1

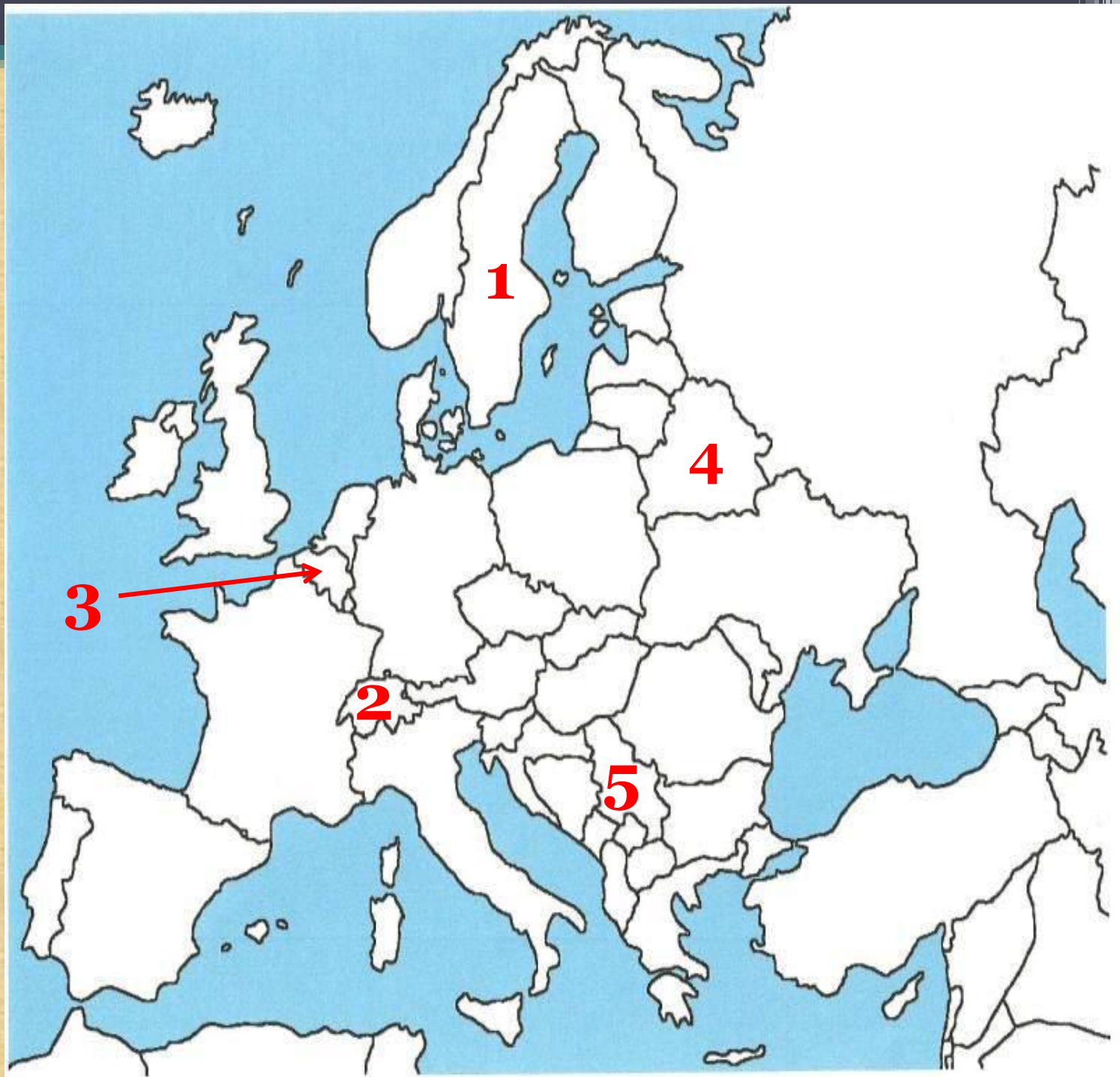

2



Denumiţi fenomenul de conflict inernațional , prezentat de imagine și numele statului care a suferit în urma fenomenului!
Nevezzétek meg a képen látható nemzetközi konfliktus jelenséget valamint az állam nevét amelyik elszenvedte !

3



Identificaţi numele continentului de pe imagine şi numele a 2 state europene care revendică teritorii, de pe continentul respectiv !

Nevezzétek meg a képen látható földrészt és 2 olyan európai országot amely területi igényt tart az illető földrészre!

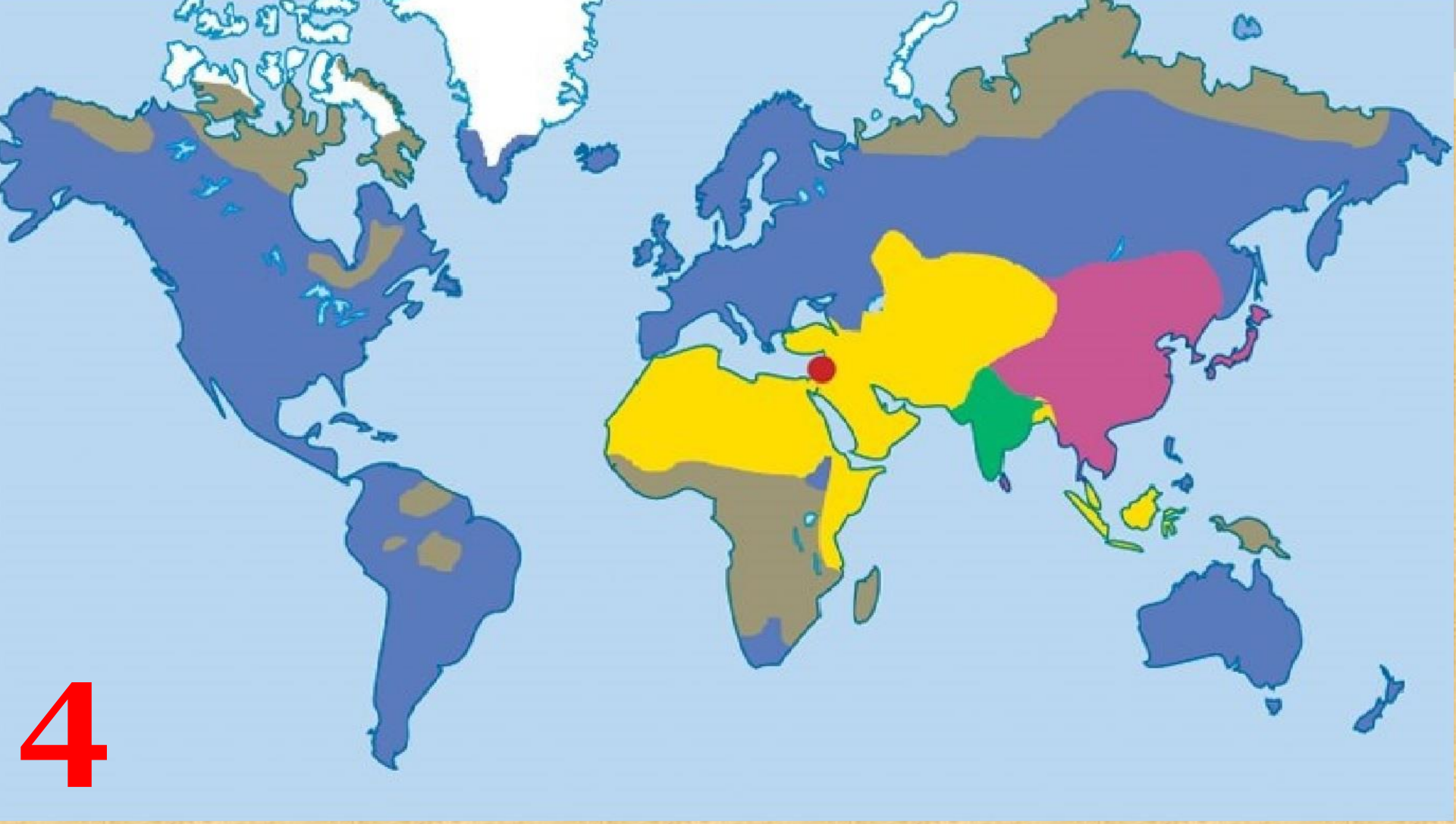

4

Harta de mai sus arată structura şi răspândirea confesională(religioasă) a populaţiei pe Pământ.Identificaţi religiile colorate pe hartă cu albastru, galben şi verde!

A fenti térkép a világ népességének vallási szerekezetét és elterjedését ábrázolja. Határozzátok meg a kék, sárga és zöld színekkel jelölt vallásokat!

Observaţi piramida de vârstă prezentată. Identificaţi tipul de ţări ce se reprezintă prin acest model de piramidă de vârstă!
Figyeljétek meg az alábbi korfát.Határozzátok milyen típusú államokra jellemző ez a korfa !

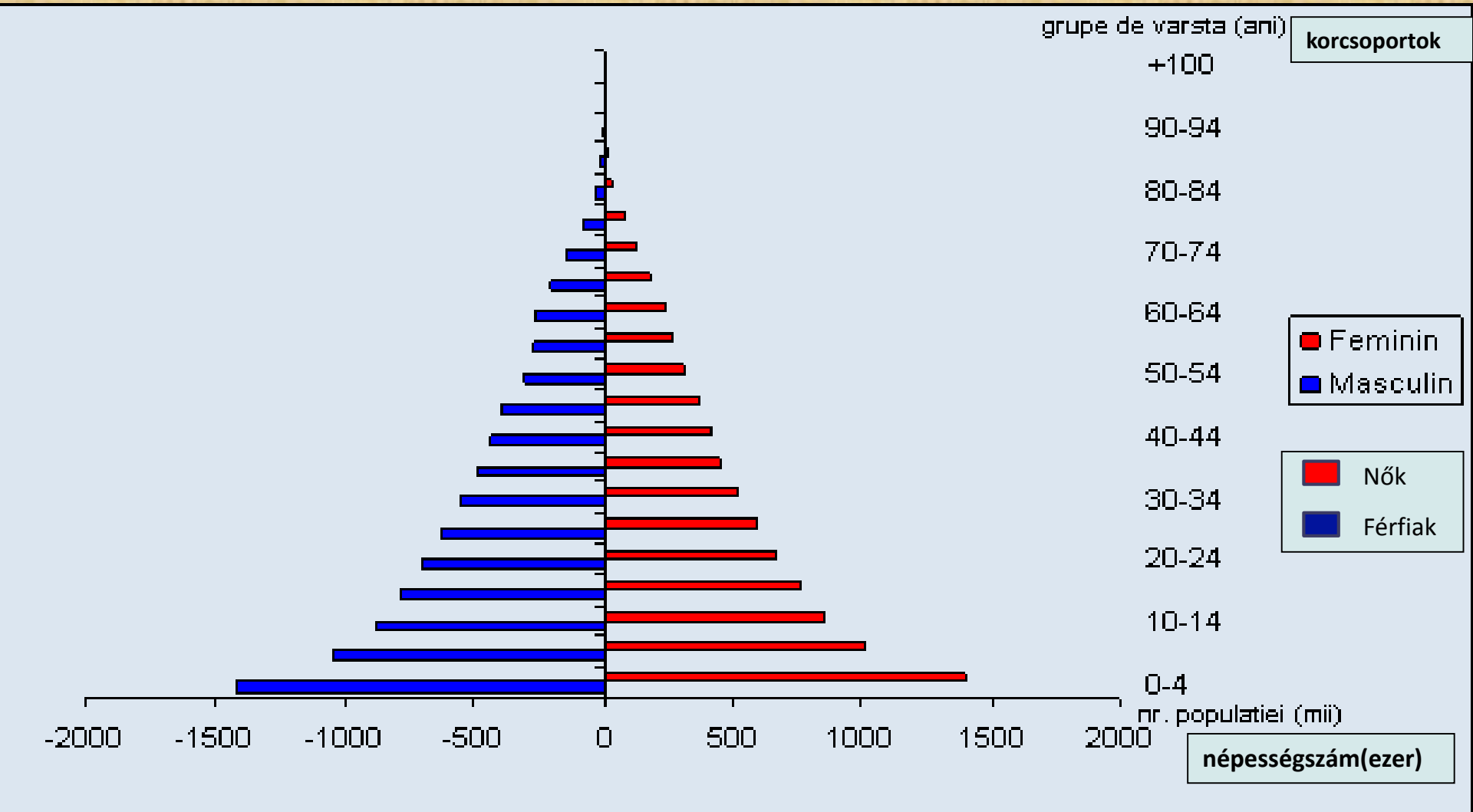

Identificaţi tipul de plan al oraşelor marcate cu literele a şi b!

Nevezzétek meg a a a és b betűkkel jelölt városok alaprajztípusait!





6


În imaginea dată vedem o parte dintr-un oraş din Europa. Identificaţi numele oraşului şi o funcţie a oraşului respectiv!
A képen egy európai városrész látható. Nevezzétek meg a várost és képen látható városrész által betöltött funkciót !
7
HOTEL MARCONI
Actv 83
VE 7556
VE 8974

Identificați tipul mediului de viață din imaginile marcate cu literele a și b!
Határozzátok meg az élettér típusokat a az a és b betűkkel jelölt képeken!

8





Identificați numele orașelor de la imaginile marcate cu literele a și b și scrieți câte o funcție pe care îndeplinesc!

Határozzátok meg az a és b betűkkel jelölt képeken a városok nevét, valamint az általuk betöltött egy – egy funkciót!

9



